2021（令和３）年度

**１日［＊］**

# 地理歴史（地理Ａ・Ｂ共通）

**注　　意**

1．監督者の指示があるまでは、問題を見ないこと。

2．問題は声を出して読まないこと。

3．問題は32ページ、1 、2 、3 、4 の４題から成っている。

4．問題や解答用紙に落丁、乱丁、汚損あるいは印刷不鮮明の箇所などがあれば、手をあげて監督者に申し出ること。内容に関する質問は受けつけない。

5．解答は必ず**鉛筆を使用し、解答用紙に記入すること**。

6．すべての解答は、それぞれの解答欄の記号に**マークすること**。

7．訂正箇所は、消しゴムで**完全に消すこと**。

8．解答に関係のない符号（？✓など）や文字は記入しないこと。

9．解答用紙を**折ったり汚したりしないこと**。

**1**　高知市に住む杏さんは、市内の諸地域の様子や課題などについて調査を行った。杏さんの調査に関して、以下の問に答えよ。

問１　杏さんは高知平野の上空から地表を鳥瞰することで、地形の様子を理解しようと考えた。次の図１は、高知平野付近を示した1995年発行の20万分の１地勢図（原図を160％に拡大）であり、次ページの図２中の①～④は、図１中に**ア**～**エ**で示した４つの山のいずれかの上空から、矢印の方向に高知市街を眺めた景観をＣＧで作成したものである。**ウ**に該当するものを、図２中の①～④の中から１つ選べ。

図１

①



②



③



④



（カシミール３Ｄにより作成）

図２

問２　杏さんは高知市街地の変容を調べるため、新旧の地形図を比較することにした。次の図３は、高知市街地周辺を示した1973年発行の地形図（原寸）であり、次ページの図４は、これと同じ範囲を示した2020年調製の地理院地図である。このことに関して、あとの(1)〜(6)に答えよ。

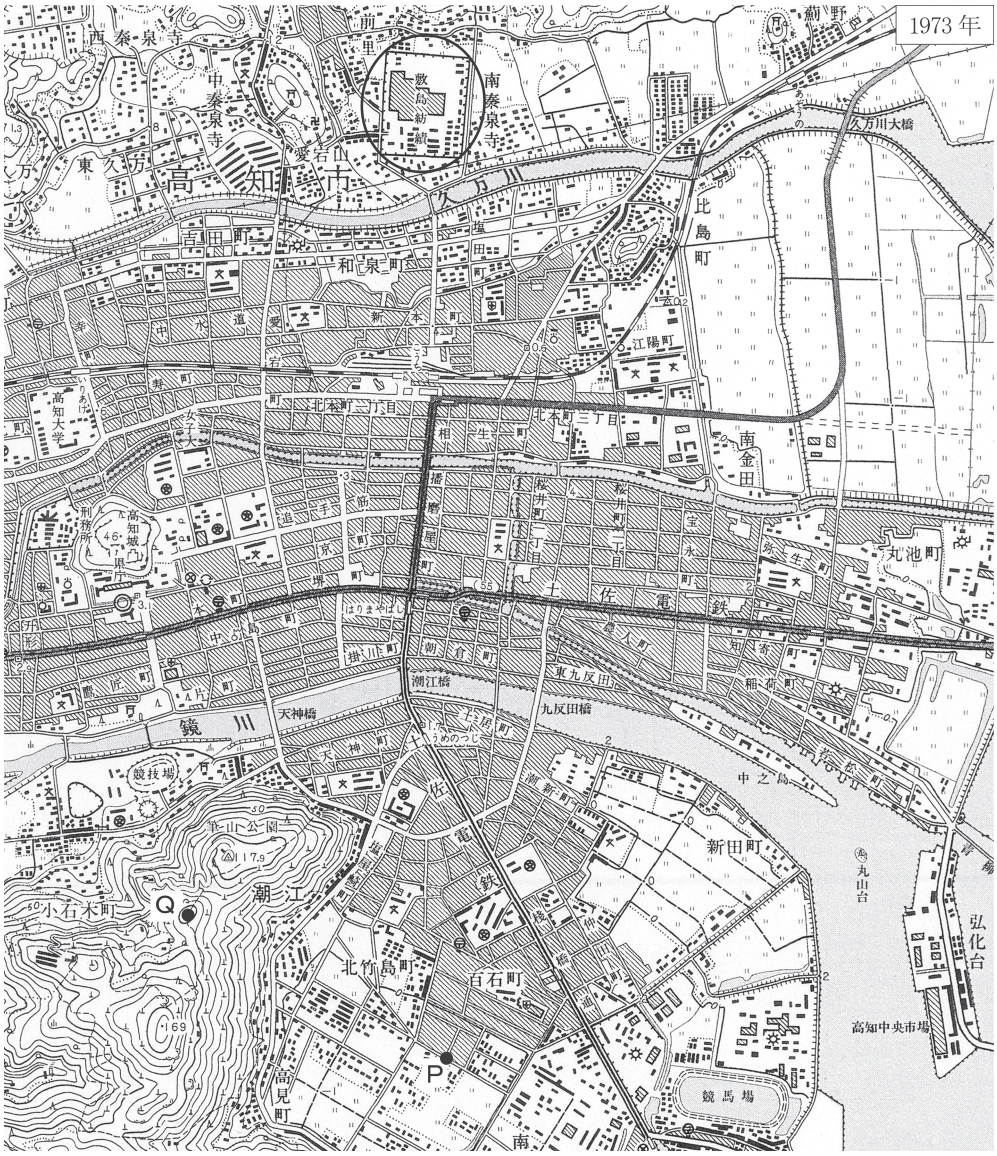


図３

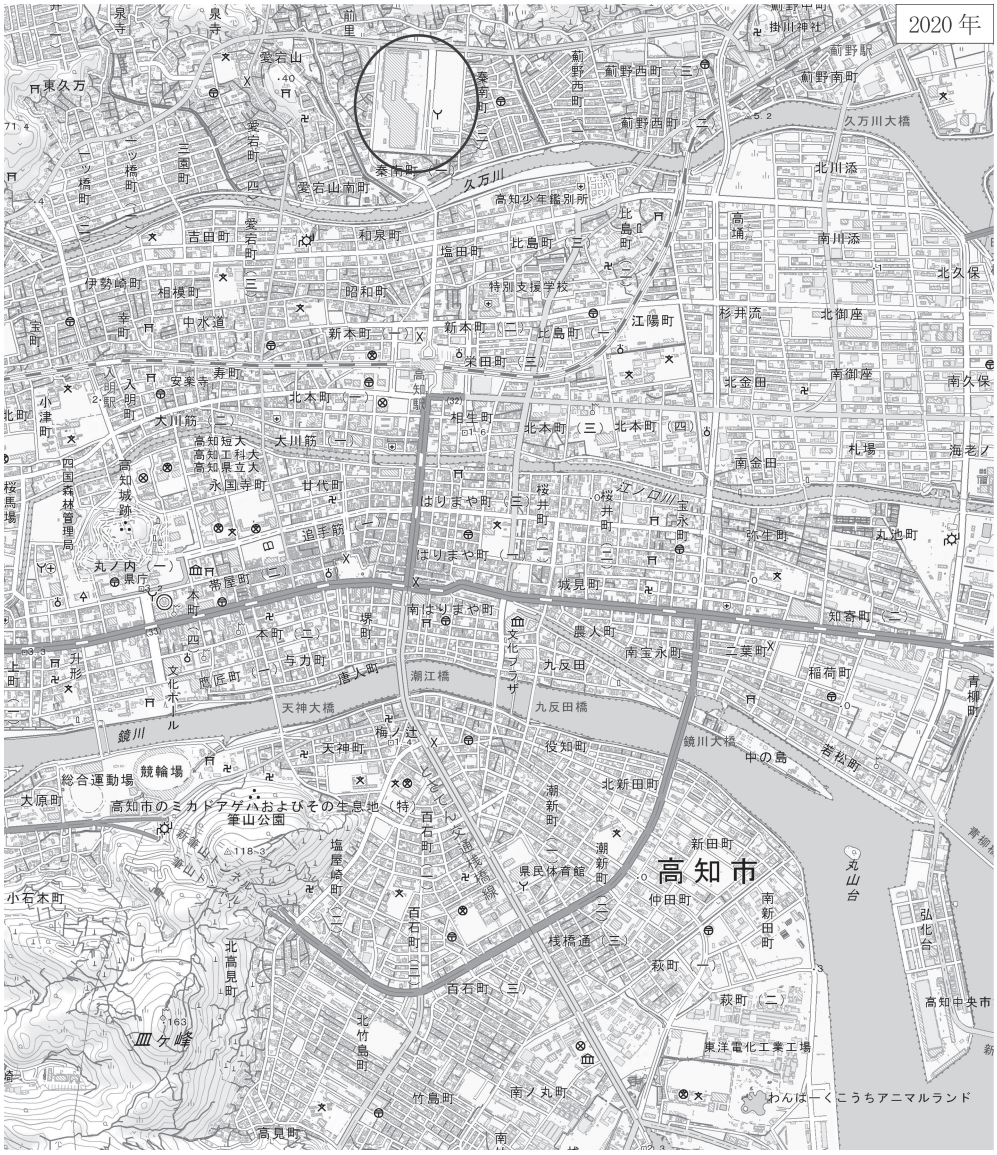
2020 年
高知市
久万川
鏡川
潮江橋
天神大橋
九反田橋
鏡川大橋
久万川大橋
高知駅
高知城跡
高知市のミカドアゲハおよびその生息地（特
競輪場
総合運動場
皿ヶ峰
丸山台
高知中央市
わんぱーくこうちアニマルランド
東洋電化工業工場
県民体育館
文化プラザ
高知少年鑑別所
特別支援学校
高知短大
高知工科大
高知県立大
四国森林管理局
県庁
安楽寺
愛宕山
愛宕山南町
秦南町
前野西町
前野南町
掛川神社
前野駅
東久万
泉寺
北川添
南川添
北久保
北御座
南御座
南久保
杉井流
江陽町
北金田
南金田
札場
海老ノ
丸池町
知寄町
二葉町
福荷町
青柳町
若松町
中の島
北新田町
新田町
仲田町
南新田町
弘化台
萩町
潮新町
役知町
九反田
農人町
南宝永町
城見町
桜井町
上永町
はりまや町
南はりまや町
追手筋
大川筋
北本町
相生町
栄田町
新本町
比島町
比島町
塩田町
和泉町
吉田町
愛宕町
三園町
ニツ橋町
伊勢崎町
相模町
中水道
昭和町
寿町
幸町
入明町
小津町
桜馬場
丸ノ内
帯屋町
本町
堺町
与力町
鷹匠町
塩屋崎町
百石町
北竹島町
竹島町
南ノ丸町
高見町
北高見町
小石本町
大原町
梅ノ辻
天神町
北ノ切川
桜井町
玉水町
稲荷町
知寄町
南ノ丸町

図 4

(1)　図３中の**P**と**Q**は、地形図上で４㎝の距離がある。**P**と**Q**を直線で結んだときの、２地点間の勾配として最も近いものを、次の①～④の中から１つ選べ。

①　0.05　　②　0.075　　③　0.1　　④　0.15

(2)　図３・４の地図を比較すると、地図記号についていくつかの違いがみられる。これに関して**誤っている**記述を、次の①～④の中から１つ選べ。

①　図３では、稲荷町付近に工場の記号がみられるが、図４にはない。これは、工場の地図記号が削除されたためである。

②　図３では、県庁東側に電報電話局の記号がみられるが、図４にはない。これは、経営形態の変更に関連して、電報電話局の地図記号が削除されたためである。

③　図４では、天神大橋南側に寺院の記号がみられるが、図３にはない。これは、図３の時期の地図記号に寺院がなかったためと考えられる。

④　図４では、追手筋に図書館の記号がみられるが、図３では小・中学校になっている。これは、小・中学校の跡地に図書館があらたにつくられたためと考えられる。

(3)　図３・４から読み取れる地域の変化について述べた文として最も適切なものを、次の①～④の中から１つ選べ。

①　路面電車は、はりまや町付近で地下化されている。

②　警察署は、高知城の南東から北東に移転した。

③　高見町付近では、丘陵地を削って大規模な住宅地の開発が行われた。

④　競馬場がなくなり、跡地には高等学校や工場がつくられた。

⑷　図３・４を見ると、この地域の成り立ちが類推される。その説明として最も適切なものを、次の①～④の中から１つ選べ。

①　百石町付近に複数の学校が存在していることから、学術研究都市として発展した。

②　川沿いに工場が立地していることから、付近の鉱山を背景に工業都市として発展した。

③　中の島や若松町に河岸があることから、外国船との交易のための港町として発展した。

④　丸ノ内や升形といった地名があることから、江戸時代から城下町として発展した。

⑸　1973年頃、「敷島紡績」の工場があった場所は、どう変化したと類推できるか。最も正しいと思われるものを、次の①～④の中から１つ選べ。

①　住宅地に変わった。

②　テーマパークに変わった。

③　ショッピングモールに変わった。

④　巨大な国際会議場に変わった。

(6)　下の図６中の①～④は、次の図５で示した範囲について、2014年経済センサス基礎調査－小地域（町丁・大字）による「金融業・保険業」、「宿泊業・飲食サービス業」、「卸売業・小売業」、「教育・学習支援業」のいずれかの事業所数を示している。「金融業・保険業」に該当するものを、図６中の①～④の中から１つ選べ。

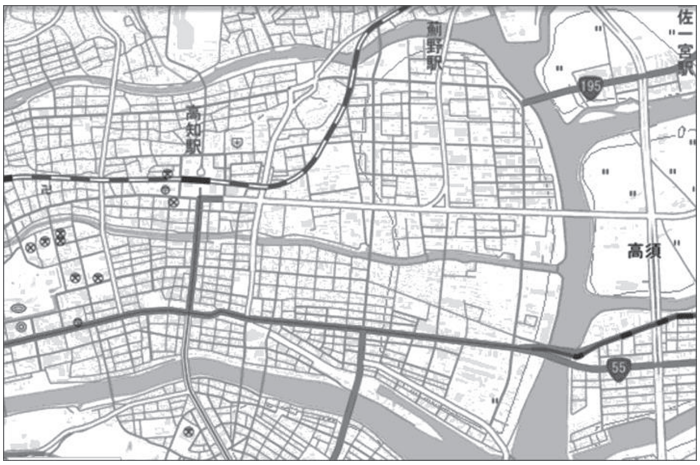


（地理院地図）

図５

①

②

③

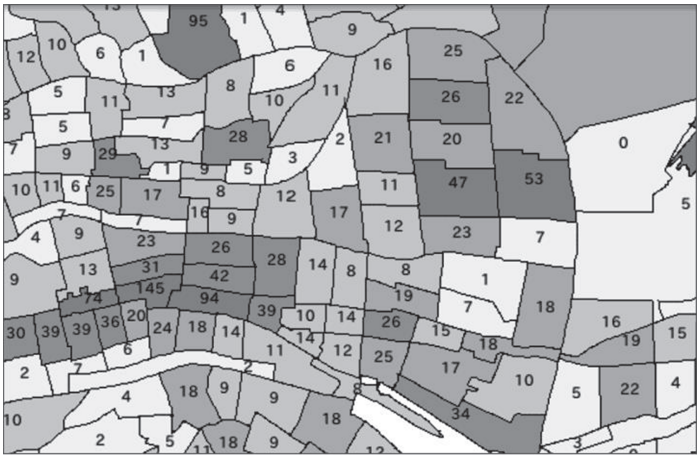

④

（2014年経済センサスにより作成）

図６

＊８

**2** 南アメリカに関して、以下の問に答えよ。

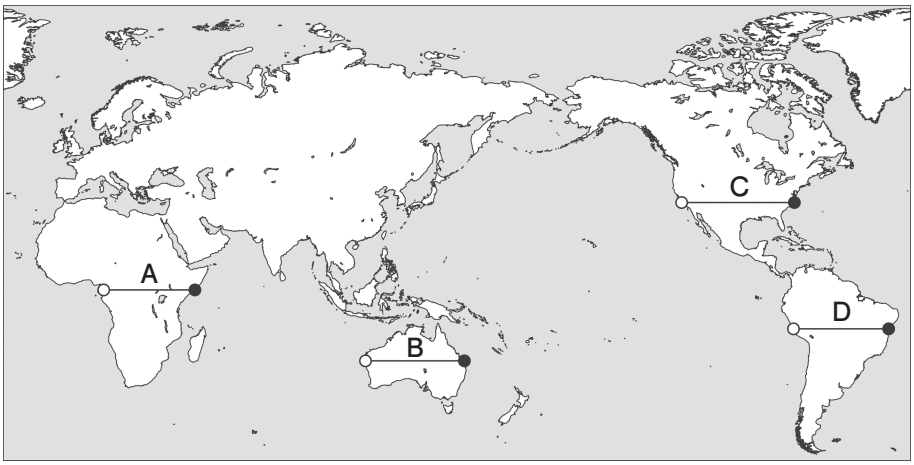


図 1

問１　次の図２中の①～④は、図１中のＡ～Ｄのいずれかの線に沿った地形断面図を示したものである。Ｄに該当するものを、図２中の①～④の中から１つ選べ。

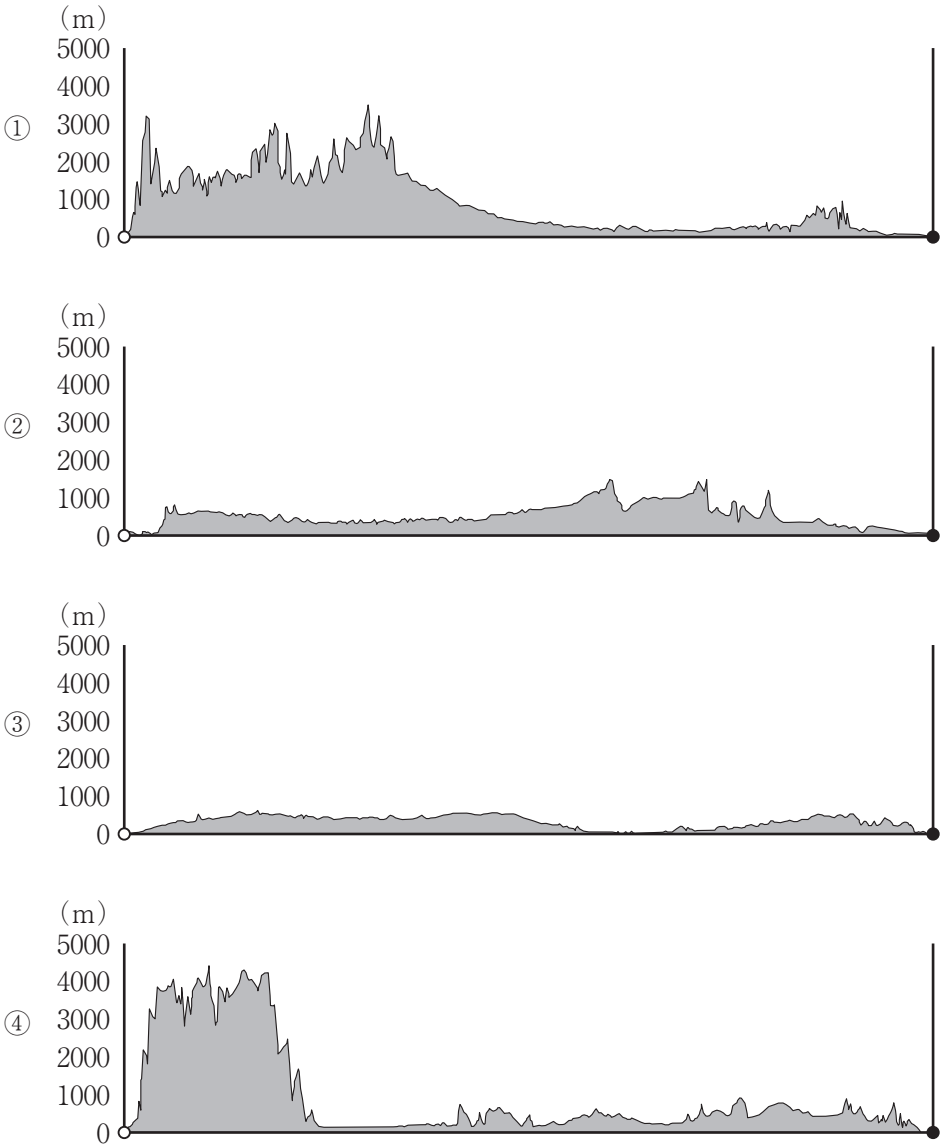


①～④の水平距離はほぼ同じである。水平距離に比べて、垂直距離は誇張して描いている。

（地理院地図により作成）

図２

問２　近年、南アメリカの「ある国」では、気温の日較差を生かして栽培された花卉を、年間を通して日本に向けて輸出している。このことに関して、次の⑴・⑵に答えよ。

⑴　次の図３中の①～④は、ウルグアイ、コロンビア、ブラジル、ペルーのいずれかの国の首都における最暖月平均気温、最寒月平均気温、年降水量を示したものである。「ある国」に該当するものを、図３中の①～④の中から１つ選べ。

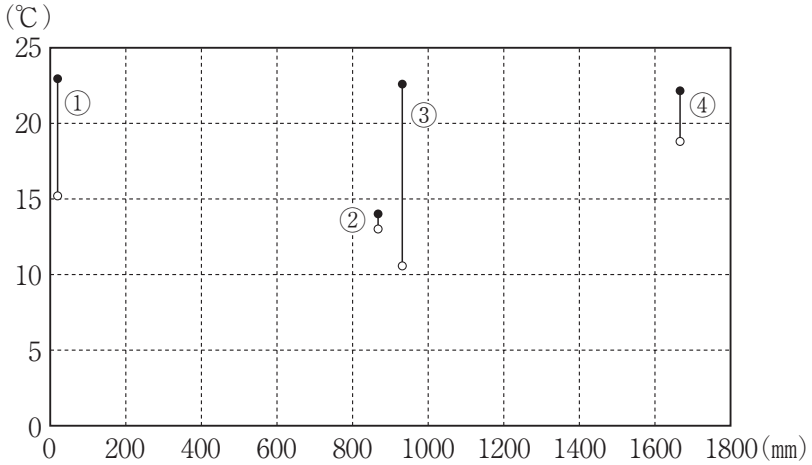


（Climate-Data.org により作成）

図３

⑵　この花卉は、輸送に便利な首都近辺で栽培が行われ、日本はこの国からの輸入が輸入量・輸入金額とも第１位である。この花卉を、次の①～④の中から１つ選べ。

①　ハイビスカス　　②　カーネーション

③　ハス　　④　スイセン

問３　次の図４中のＥに発達した地形についての説明として適切なものを、下の①～④の中から１つ選べ。

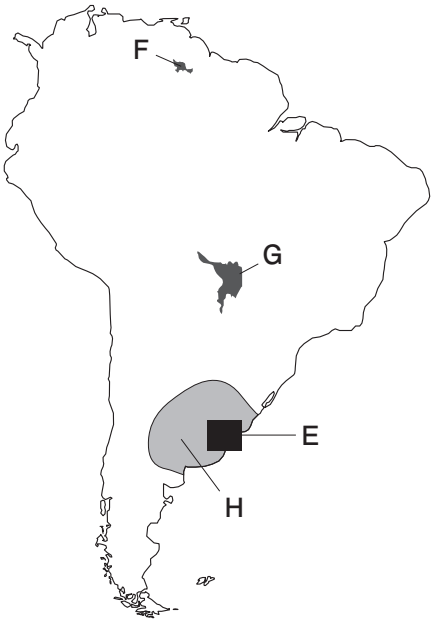


図４

①　河川の河口部が沈水して形成されたラッパ状に開いた地形。

②　河川によって運搬された砂礫などが堆積して形成された地形。

③　氷河の侵食を受けた谷が沈水し、海水が浸入して形成された地形。

④　山地が沈水して形成された、複雑な海岸線をもつ地形。

問４　近年は、珍しい自然景観に触れるために南アメリカ大陸を訪れる人も多くなっている。次のａ・ｂの文は、世界自然遺産である図４中のＦ（カナイマ国立公園）、Ｇ（パンタナール保全地域）について述べたものである。ａ・ｂの文の正誤の組み合わせとして適切なものを、下の①～④の中から１つ選べ。

ａ　Ｆではテーブル状の山が連続し、切り立った岩肌には高低差の大きな滝が見られる。

ｂ　Ｇでは年間を通して降水量が多く、多数の支流や分流からなる大湿地帯を形成している。

①　ａ・ｂとも正しい　　②　ａのみ正しい

③　ｂのみ正しい　　④　ａ・ｂとも誤り

問５　南アメリカ大陸では企業的な農牧業が営まれ、生産物が世界中に輸出されている。次の**ア**～**エ**の文は、図４中のＨの範囲の自然環境と、そこで営まれる農牧業について述べたものである。**ア**～**エ**のうち、**誤っているもの**の組み合わせとして適切なものを、下の①～⑥の中から１つ選べ。

**ア**　この地域には、母岩の影響を強く受けた性質の土壌が広く分布している。

**イ**　農業地域はおおむね年降水量500㎜程度を境に分けられ、沿岸部がより湿潤である。

**ウ**　アルファルファと呼ばれる栄養価の高いマメ科の牧草が栽培されている。

**エ**　アフリカ系移民の労働力を背景として、大規模なコーヒーのプランテーションがつくられた。

①　**ア・イ**　　②　**ア・ウ**　　③　**ア・エ**

④　**イ・ウ**　　⑤　**イ・エ**　　⑥　**ウ・エ**

問６　南アメリカ大陸では水産物の輸出が盛んな国も多くあり、その背景には沿岸を流れる海流が重要になっている。赤道以南の南アメリカ大陸の沿岸部には、東岸と西岸で向きや水温の異なる大きな海流がある。海流の向き及び暖流・寒流の違いを正しく表しているものを、次の図５中の①～④の中から１つ選べ。

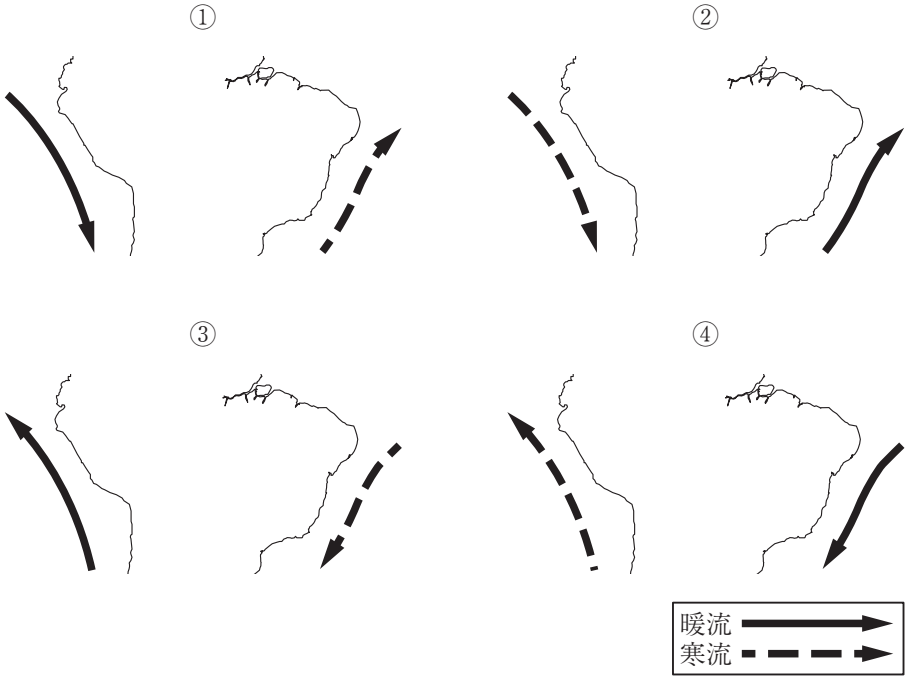


図５

問７　ブラジルでは、自然環境の特徴を生かしたコーヒー豆やさとうきびの栽培が盛んであり、同国の重要な輸出品となっている。このことに関して、次の⑴・⑵に答えよ。

⑴　次の表１中の**カ**・**キ**は、コーヒー豆またはさとうきびの生産量上位４か国と世界計に占める割合を示したものであり、表１中の**P**・**Q**は、コロンビア・中国のいずれかである。**カ**と**Q**に該当するものの組み合わせとして適切なものを、下の①～④の中から１つ選べ。

表１

| | | | | | | | | |
|---|---|---|---|---|---|---|---|---|
| **カ** | ブラジル | 29.1 | ベトナム | 16.7 | **P** | 8.2 | インドネシア | 7.3 |
| **キ** | ブラジル | 41.2 | インド | 16.6 | **Q** | 5.7 | タイ | 5.6 |

単位は％。統計年次は2017年。

（『データブック　オブ・ザ・ワールド2020年版』により作成）

| | ① | ② | ③ | ④ |
|---|---|---|---|---|
| **カ** | コーヒー豆 | コーヒー豆 | さとうきび | さとうきび |
| **Q** | コロンビア | 中　国 | コロンビア | 中　国 |

⑵　次ページの図６は、ブラジルのオレンジ、コーヒー豆、サトウキビ、大豆のいずれかの生産量の推移を、1980年を100とした指数で示したものである。大豆に該当するものを、図６中の①～④の中から１つ選べ。

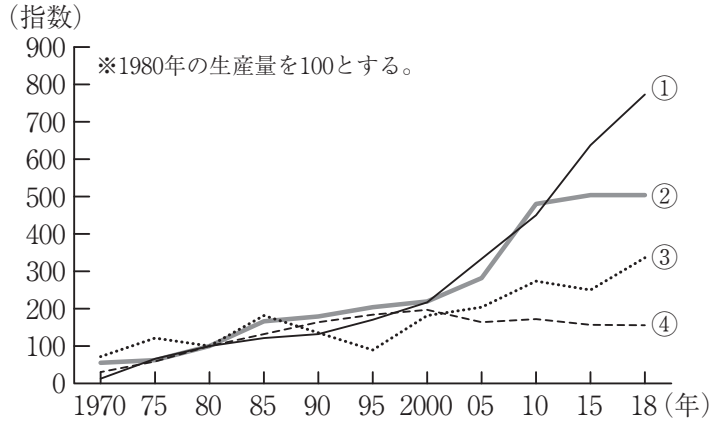


（FAOSTAT により作成）

図 6

問 8　鉱産資源やエネルギー資源の開発は、その地域の自然条件に大きく左右される。次の表 2 中の X ～ Z は、エクアドル、パラグアイ、ボリビアのいずれかについて、輸出品のうち主な鉱産資源やエネルギー資源と、それらが輸出総額に占める割合を示したものである。国名と X ～ Z の組み合わせとして適切なものを、下の①～⑥の中から 1 つ選べ。

表 2

| | 輸出総額（百万ドル） | 代表的な鉱産資源・エネルギー資源 数字は輸出総額に占める割合（%） | | | |
|---|---|---|---|---|---|
| X | 7,852 | 天然ガス | 32.9 | 亜鉛鉱 | 17.2 |
| Y | 19,122 | 原　油 | 32.4 | | |
| Z | 8,680 | 電　力 | 24.2 | | |

統計年次は2017年。

（『世界国勢図会2019／20年版』により作成）

| | ① | ② | ③ | ④ | ⑤ | ⑥ |
|---|---|---|---|---|---|---|
| エクアドル | X | X | Y | Y | Z | Z |
| パラグアイ | Y | Z | X | Z | X | Y |
| ボリビア | Z | Y | Z | X | Y | X |

**3** オセアニア及び太平洋の周辺地域に関して、以下の問に答えよ。

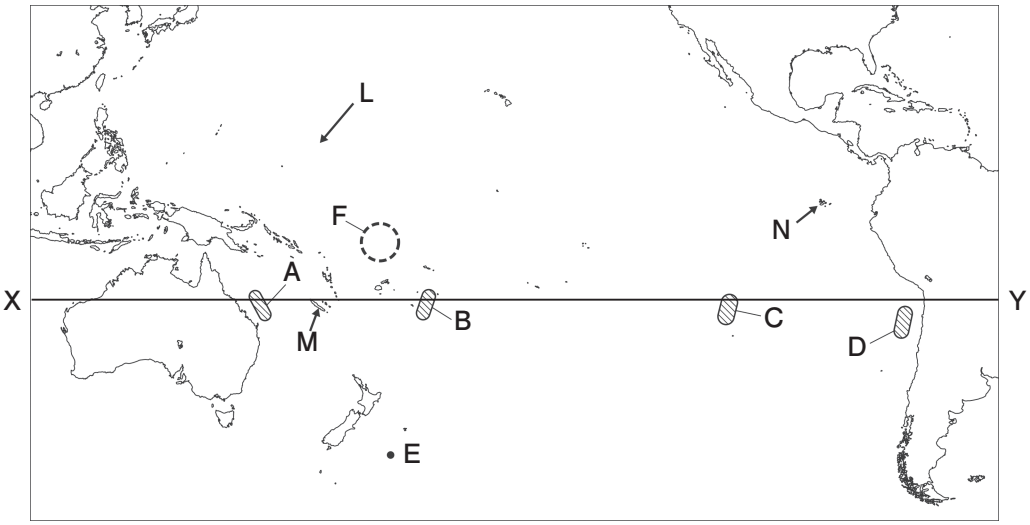


図１

問１　図１中のA～Dのうち、水深が６,000mよりも深い地点を含む水域の組み合わせとして適切なものを、次の①～④の中から１つ選べ。

①　AとB　　②　AとC　　③　BとC　　④　BとD

問２　図１中のEは、海洋面積が最大となるように地球を半球に分けた水半球の中心を示しており、その位置は、およそ南緯48度、西経179.5度にあたる。その対蹠点にあたる陸半球の中心のおよその緯度・経度の組み合わせとして適切なものを、次の①～④の中から１つ選べ。

| | ① | ② | ③ | ④ |
|---|---|---|---|---|
| 緯　度 | 北緯42度 | 北緯42度 | 北緯48度 | 北緯48度 |
| 経　度 | 東経0.5度 | 東経179.5度 | 東経0.5度 | 東経179.5度 |

問３　図１中のＸ―Ｙの緯度として適切なものはどれか。次の①～④の中から１つ選べ

①　赤道　　②南緯10度　　③南緯20度　　④南緯30度

問４　図１中のＦに位置するツバルでは、地球温暖化によって様々な環境問題が生じている。ツバルで起こっている問題として最も適切なものを、次の①～④の中から１つ選べ。

①　地下水への海水の流入。

②　異常乾燥による山火事の発生。

③　津波による浸水被害の発生。

④　オゾン層の減少による農作物への被害。

問５　次の**ア**～**ウ**の文は、図１中のＬ～Ｎのいずれかの島々について述べたものである。Ｌ～Ｎと**ア**～**ウ**の組み合わせとして適切なものを、下の①～⑥の中から１つ選べ。

**ア**　ゾウガメ、イグアナなど、独自の進化をとげた生物が多い。

**イ**　フランス領の海洋リゾート地で、ニッケルの産地としても有名である。

**ウ**　アメリカ合衆国によって核実験が行われ、日本の漁船も被曝した。

| | ① | ② | ③ | ④ | ⑤ | ⑥ |
|---|---|---|---|---|---|---|
| Ｌ | ア | ア | イ | イ | ウ | ウ |
| Ｍ | イ | ウ | ア | ウ | ア | イ |
| Ｎ | ウ | イ | ウ | ア | イ | ア |

問６　環太平洋の多くの国・地域が加盟しているＡＰＥＣ（アジア太平洋経済協力会議）に関して、次の⑴・⑵に答えよ。

⑴　次の**カ**～**ク**の文のうち、ＡＰＥＣについて正しく述べているものの組み合わせとして適切なものを、下の①～⑥の中から１つ選べ。

**カ**　域内の平和や安定、経済協力をめざして、1960年代に結成された。
**キ**　域内では関税を撤廃し、域外に対する共通関税を設定している。
**ク**　日本やオーストラリアなどに加え、中国やロシアも加盟している。

①　**カ**のみ　　②　**キ**のみ　　③　**ク**のみ
④　**カ**と**キ**　　⑤　**カ**と**ク**　　⑥　**キ**と**ク**

⑵　次の表１は、ＡＰＥＣに加盟しているいくつかの国・地域について、輸出額の上位４品目と輸出総額に占める割合を示したものであり、表１中の**サ**～**ス**は、台湾、ベトナム、メキシコのいずれかである。国・地域名と**サ**～**ス**の組み合わせとして適切なものを、下の①～⑥の中から１つ選べ。

表１

| | | | | | | | | |
|---|---|---|---|---|---|---|---|---|
| **サ** | 機械類 | 52.8 | 精密機械 | 5.0 | プラスチック | 4.6 | 石油製品 | 4.1 |
| **シ** | 機械類 | 40.2 | 衣　類 | 11.6 | 履　物 | 7.1 | 魚介類 | 3.9 |
| **ス** | 機械類 | 35.1 | 自動車 | 25.6 | 原　油 | 5.9 | 精密機械 | 3.8 |

単位は％。統計年次は、ベトナムが2017年、その他が2018年。
（『データブック　オブ・ザ・ワールド2020年版』により作成）

| | ① | ② | ③ | ④ | ⑤ | ⑥ |
|---|---|---|---|---|---|---|
| 台　湾 | **サ** | **サ** | **シ** | **シ** | **ス** | **ス** |
| ベトナム | **シ** | **ス** | **サ** | **ス** | **サ** | **シ** |
| メキシコ | **ス** | **シ** | **ス** | **サ** | **シ** | **サ** |

問７　下の図３中の①～④は、次の図２中のＰ～Ｓのいずれかの地点における月降水量を示したものである。Ｐに該当するものを、図３中の①～④の中から１つ選べ。

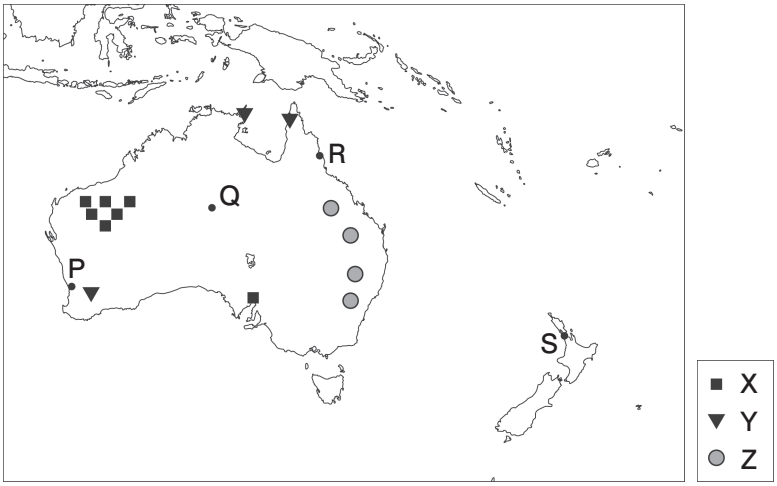


図２

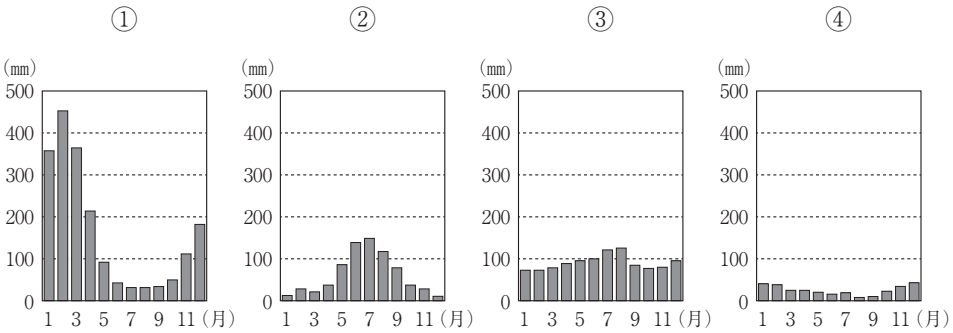


（気象庁資料により作成）

図３

問８　オーストラリアとニュージーランドの農牧業についての説明として**誤っているもの**を、次の①～④の中から１つ選べ。

①　オーストラリア内陸部のグレートアーテジアン（大鑽井）盆地では、豊富な地下水を利用して集約的に肉牛の飼育が行われている。

②　オーストラリア南東部と南西部では、小麦などの穀物を中心に大規模経営の農業が行われている。

③　ニュージーランド南島の東部は西部より降水量が少ないため、草原を利用した羊の放牧が行われている。

④　ニュージーランドではかぼちゃの日本向け輸出が盛んであり、日本の冬から春にあたる時期に多く輸出されている。

問９　次の図４中の**タ**～**ツ**は、図２中の**X**～**Z**が主な産地となっているいずれかの資源について、産出量上位４か国と世界計に占める割合を示したものであり、**X**～**Z**は、石炭、鉄鉱石、ボーキサイトのいずれかである。**X**～**Z**と**タ**～**ツ**の組み合わせとして適切なものを、下の①～⑥の中から１つ選べ。




統計年次は、**タ**・**チ**が2016年、**ツ**が2015年。

（『データブック　オブ・ザ・ワールド2020年版』により作成）

図４

| | ① | ② | ③ | ④ | ⑤ | ⑥ |
|---|---|---|---|---|---|---|
| **X** | **タ** | **タ** | **チ** | **チ** | **ツ** | **ツ** |
| **Y** | **チ** | **ツ** | **タ** | **ツ** | **タ** | **チ** |
| **Z** | **ツ** | **チ** | **ツ** | **タ** | **チ** | **タ** |

問10　オーストラリアとニュージーランドの多文化社会について述べた次の文章中の下線部①～④の中から、**誤っているもの**を１つ選べ。

オーストラリアでは、①20世紀の初頭から白人を優遇する政策が行われ、ヨーロッパ系以外の移民の制限が行われていた。その政策は段階的に撤廃され、アジアなどからの移民受け入れを進め、②先住民サーミの文化を尊重するなど、多文化主義を積極的に推進するようになった。

ニュージーランドでは、③ポリネシア系の先住民であるマオリの伝統的な文化や言語を保存するための取り組みが行われており、④マオリ語も公用語の１つに採用されている。

**4** 日本及び世界の交通、通信、貿易に関して、以下の問に答えよ。

問１　次の表１・表２は、日本の鉄道の旅客輸送量*に関するものであり、表１中の**A**・**B**は、ＪＲまたはＪＲ以外の民間鉄道のいずれかについて、定期輸送量**・定期外輸送量***の比率を示している。また表２は、新幹線における旅客数量及び旅客輸送量の対前年度増加率を示している。表１中の**A**に該当する経営体と、表２から考えられる内容の組み合わせとして適切なものを、次ページの①～④の中から１つ選べ。

*旅客輸送量を表す単位として「人キロ」があり、旅客の数にその輸送距離を乗じたものである。

**定期券を利用した旅客の輸送量（人キロ）。

***定期券を利用しない旅客の輸送量（人キロ）。

表１

| | 定期輸送 | 定期外輸送 |
|---|---|---|
| **A** | 40.8 | 59.2 |
| **B** | 60.3 | 39.7 |

単位は％。統計年次は2018年度。
（国土交通省「鉄道輸送統計調査」により作成）

表２

| | 旅客数量（人）の増加率 | 旅客輸送量（人キロ）の増加率 |
|---|---|---|
| 定期輸送 | ＋2.1％ | ＋2.5％ |
| 定期外輸送 | ＋2.1％ | ＋2.2％ |

増加率の統計年次は2018年度／2017年度。
（国土交通省「鉄道輸送統計調査」により作成）

| | A | 表２から考えられる内容 |
|---|---|---|
| ① | ＪＲ | 新幹線利用者の１人あたり平均乗車距離が短くなっている |
| ② | ＪＲ | 新幹線利用者の１人あたり平均乗車距離が伸びている |
| ③ | ＪＲ以外の民間鉄道 | 新幹線利用者の１人あたり平均乗車距離が短くなっている |
| ④ | ＪＲ以外の民間鉄道 | 新幹線利用者の１人あたり平均乗車距離が伸びている |

問２　日本では、様々な理由から貨物の輸送手段を自動車から鉄道に切り替えようとする動きが見られる。鉄道輸送と自動車輸送を比較した場合の、鉄道輸送の利点として**誤っているもの**を、次の①～④の中から１つ選べ。

①　定時性が高いこと。

②　輸送単位あたりの温室効果ガスの排出量が少ないこと。

③　経路選択に弾力性があること。

④　輸送量の増大に対して必要な人員の確保が難しくないこと。

問３　次の表３は、いくつかの国の自動車保有台数（2017年）と、道路延長距離（2015年）について示したものであり、表３中のD～Fは、インド・中国・フランスのいずれかである。D～Fと国名の組み合わせとして適切なものを、下の①～⑥の中から１つ選べ。

表３

| | 自動車保有台数（万台）2017年 | 1㎢あたり乗用車台数（台）2017年 | 1㎢あたり道路延長（km）2015年 | 舗装率（%）2015年 |
|---|---|---|---|---|
| アメリカ合衆国 | 27,602 | 12.6 | 0.68 | 66.3 |
| D | 21,560 | 19.2 | 0.48 | 72.1 |
| ロシア | 5,296 | 2.7 | 0.09 | 70.6 |
| E | 4,652 | 10.9 | 1.66 | 61.1 |
| ブラジル | 4,360 | 4.2 | 0.18 | 13.5 |
| F | 3,938 | 50.9 | 1.95 | 100.0 |
| カナダ | 2,385 | 2.3 | 0.13* | 34.0* |
| インドネシア | 2,362 | 7.4 | 0.27 | 57.5 |

*2013年。

（『データブック　オブ・ザ・ワールド2020年版』により作成）

| | ① | ② | ③ | ④ | ⑤ | ⑥ |
|---|---|---|---|---|---|---|
| D | インド | インド | 中　国 | 中　国 | フランス | フランス |
| E | 中　国 | フランス | インド | フランス | インド | 中　国 |
| F | フランス | 中　国 | フランス | インド | 中　国 | インド |

問４　次の図１は、各都道府県における100世帯あたり乗用車保有台数を示したものであり、図１中のＧ～Ｉは、愛知県、神奈川県、富山県のいずれかである。また、全国平均はア・イのいずれかの位置にある。愛知県と全国平均に該当するものの組み合わせとして適切なものを、下の①～⑥の中から１つ選べ。

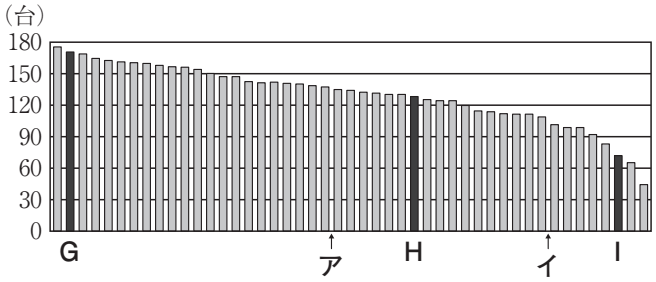


統計年次は2016年。

（『データでみる県勢2018年版』により作成）

図１

| | ① | ② | ③ | ④ | ⑤ | ⑥ |
|---|---|---|---|---|---|---|
| 愛知県 | G | G | H | H | I | I |
| 全国平均 | ア | イ | ア | イ | ア | イ |

問５　次の図２は、札幌、東京、大阪、福岡の各空港間の旅客数を示したものであり、図２中のＪ～Ｌは、札幌、大阪、福岡のいずれかである。地名とＪ～Ｌの組み合わせとして適切なものを、下の①～⑥の中から１つ選べ。

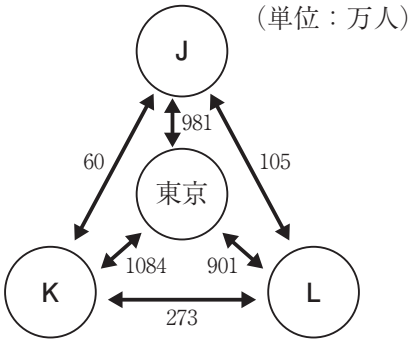


札幌＝新千歳。東京＝成田・羽田の合計。大阪＝大阪（伊丹）・関西・神戸の合計。統計年次は2018年。

（国土交通省「航空輸送統計調査」により作成）

図２

| | ① | ② | ③ | ④ | ⑤ | ⑥ |
|---|---|---|---|---|---|---|
| 札　幌 | J | J | K | K | L | L |
| 大　阪 | K | L | J | L | J | K |
| 福　岡 | L | K | L | J | K | J |

問６　次の表４は、航空旅客輸送（2018年）について、国内・国際合計と、国際定期輸送を比較したものであり、表４中の**カ**～**ク**は、アラブ首長国連邦、ドイツ、ロシアのいずれかである。国名と**カ**～**ク**の組み合わせとして適切なものを、下の①～⑥の中から１つ選べ。

表４

| | 国内・国際合計 | | 国際定期輸送 | |
|---|---|---|---|---|
| | 輸送人員*（千人） | 旅客輸送量（百万人キロ） | 輸送人員**（千人） | 旅客輸送量（百万人キロ） |
| **カ** | 95, 306 | 409, 367 | 84, 738 | 409, 367 |
| **キ** | 116, 847 | 242, 054 | 92, 665 | 233, 645 |
| **ク** | 89, 374 | 229, 060 | 26, 147 | 107, 097 |
| アイルランド | 153, 538 | 224, 623 | 113, 145 | 222, 317 |

*2017年。**2015年。

（『データブック　オブ・ザ・ワールド2020年版』により作成）

| | ① | ② | ③ | ④ | ⑤ | ⑥ |
|---|---|---|---|---|---|---|
| アラブ首長国連邦 | **カ** | **カ** | **キ** | **キ** | **ク** | **ク** |
| ドイツ | **キ** | **ク** | **カ** | **ク** | **カ** | **キ** |
| ロシア | **ク** | **キ** | **ク** | **カ** | **キ** | **カ** |

問７　運河や海峡は、海上輸送を行う上で極めて重要である。次の表５は、いくつかの運河や海峡について、通過する国または沿岸国、それぞれの運河・海峡の特徴をまとめたものである。表５中のＰ～Ｕのうち、**誤っているもの**の組み合わせとして適切なものを、下の①～⑧の中から１つ選べ。

表５

| 運河・海峡 | 通過する国または沿岸国 | 特　徴 |
|---|---|---|
| パナマ運河 | Ｐ　パナマ国内 | Ｔ　パナマ運河は途中に水門を持たない運河であるが、スエズ運河は複数の水門を持つ運河である。 |
| スエズ運河 | Ｑ　エジプト、イスラエル | |
| マラッカ海峡 | Ｒ　マレーシア、タイ、インドネシア、シンガポール | Ｕ　マラッカ海峡やホルムズ海峡は、航行の安全性に懸念がある。 |
| ホルムズ海峡 | Ｓ　オマーン、イラン | |

①　ＰとＴ　　②　ＰとＵ　　③　ＱとＴ　　④　ＱとＵ
⑤　ＲとＴ　　⑥　ＲとＵ　　⑦　ＳとＴ　　⑧　ＳとＵ

問８　次の表６は、コンテナ取扱量（中国・香港・台湾を除く）における上位港湾の変化を示したものであり、四角で囲んだ数字は取扱量の世界順位を示している。これに関して、あとの⑴・⑵に答えよ。

表６

| | 2010年 | 2018年 |
|---|---|---|
| シンガポール | 28,431 2 | 36,600 2 |
| プサン | 14,157 5 | 21,660 6 |
| ドバイ | 11,600 9 | 14,950 10 |
| ロッテルダム | 11,146 10 | 14,510 11 |
| ポートケラン* | 8,870 13 | 12,030 12 |
| アントウェルペン | 8,468 14 | 11,100 13 |
| タンジュンペラパス* | 6,530 17 | 8,790 18 |
| ハンブルク | 7,900 15 | 8,780 19 |

単位は千ＴＥＵ。*マレーシア。

（『世界国勢図会2020／21年版』により作成）

⑴　表６から読み取れる内容として最も適切なものを、次の①～④の中から１つ選べ。

①　中国を除く取扱量上位３港湾は、すべて東南アジアの港湾である。

②　表６にあるヨーロッパの取扱量上位港湾は、すべてＥＵに加盟する国の港湾である。

③　2010年と2018年を比較すると、上位15位以内に入る中国の港湾数は減少していると考えられる。

④　2010年と2018年を比較すると、表６中の港湾ではアジアよりヨーロッパの港湾の取扱量の伸び率が大きい。

(2) 表６中のロッテルダムとハンブルクは、いずれも国際河川の河口付近に立地し、内航と外航の結節点として重要である。それぞれの港湾が立地する河川名の組み合わせとして適切なものを、次の①～④の中から１つ選べ。

| | ① | ② | ③ | ④ |
|---|---|---|---|---|
| ロッテルダム | テムズ川 | テムズ川 | ライン川 | ライン川 |
| ハンブルク | エルベ川 | ドナウ川 | エルベ川 | ドナウ川 |

問９　次の表７中のＸ～Ｚは、ブラジル、日本、ロシアのいずれかにおける100人あたり固定電話契約数、100人あたり移動電話契約数、インターネット利用者率を示したものである。国名とＸ～Ｚの組み合わせとして適切なものを、下の①～⑥の中から１つ選べ。

表７

| | 100人あたり<br>固定電話契約数（件） | 100人あたり<br>移動電話契約数（件） | インターネット<br>利用者率（％） |
|---|---|---|---|
| Ｘ | 49.9 | 141.4 | 91.3 |
| Ｙ | 18.3 | 98.8 | 70.4 |
| Ｚ | 20.7 | 157.4 | 80.9 |

統計年次は2018年。

（『世界国勢図会2020／21年版』により作成）

| | ① | ② | ③ | ④ | ⑤ | ⑥ |
|---|---|---|---|---|---|---|
| ブラジル | Ｘ | Ｘ | Ｙ | Ｙ | Ｚ | Ｚ |
| 日　本 | Ｙ | Ｚ | Ｘ | Ｚ | Ｘ | Ｙ |
| ロシア | Ｚ | Ｙ | Ｚ | Ｘ | Ｙ | Ｘ |

問10　次の図３は、ＥＵ及びＡＳＥＡＮ、アメリカ合衆国、中国の相互の貿易額について示したものである。図３中の**サ**～**ス**に該当する地域・国の組み合わせとして適切なものを、下の①～⑥の中から１つ選べ。

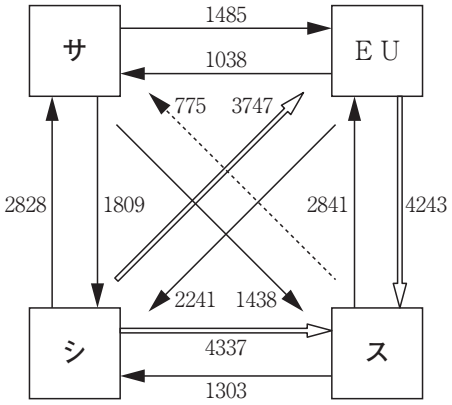


単位は億ドル。統計年次は2017年。
（「ジェトロ世界貿易投資報告2018年版」により作成）

図３

| | ① | ② | ③ | ④ | ⑤ | ⑥ |
|---|---|---|---|---|---|---|
| **サ** | ＡＳＥＡＮ | ＡＳＥＡＮ | アメリカ合衆国 | アメリカ合衆国 | 中　国 | 中　国 |
| **シ** | アメリカ合衆国 | 中　国 | ＡＳＥＡＮ | 中　国 | ＡＳＥＡＮ | アメリカ合衆国 |
| **ス** | 中　国 | アメリカ合衆国 | 中　国 | ＡＳＥＡＮ | アメリカ合衆国 | ＡＳＥＡＮ |

問11　2020年７月現在、日本とＥＰＡ（経済連携協定）を**結んでいない国**を、次の①～④の中から１つ選べ。

①　韓国　　②　インドネシア

③　ベトナム　　④　フィリピン

# 地理歴史（地理）解答用紙　　1日［＊］

1

| | | |
|---|---|---|
| 問 1 | | ①●③④ |
| 問 2 | （1） | ①②●④ |
| | （2） | ①②●④ |
| | （3） | ①●③④ |
| | （4） | ①②③● |
| | （5） | ①②●④ |
| | （6） | ●②③④ |

22点

2

| | | |
|---|---|---|
| 問 1 | | ①②③● |
| 問 2 | （1） | ①●③④ |
| | （2） | ①●③④ |
| 問 3 | | ●②③④ |
| 問 4 | | ①●③④ |
| 問 5 | | ①②●④⑤⑥ |
| 問 6 | | ①②③● |
| 問 7 | （1） | ①●③④ |
| | （2） | ●②③④ |
| 問 8 | | ①②③●⑤⑥ |

26点

3

| | | |
|---|---|---|
| 問 1 | | ①②③● |
| 問 2 | | ①②●④ |
| 問 3 | | ①②●④ |
| 問 4 | | ●②③④ |
| 問 5 | | ①②③④⑤● |
| 問 6 | （1） | ①②●④⑤⑥ |
| | （2） | ●②③④⑤⑥ |
| 問 7 | | ①●③④ |
| 問 8 | | ●②③④ |
| 問 9 | | ①②③④●⑥ |
| 問 10 | | ①●③④ |

28点

4

| | | |
|---|---|---|
| 問 1 | | ①●③④ |
| 問 2 | | ①②●④ |
| 問 3 | | ①②●④⑤⑥ |
| 問 4 | | ①②③●⑤⑥ |
| 問 5 | | ①②③●⑤⑥ |
| 問 6 | | ●②③④⑤⑥ |
| 問 7 | | ①②●④⑤⑥⑦⑧ |
| 問 8 | （1） | ①●③④ |
| | （2） | ①②●④ |
| 問 9 | | ①②●④⑤⑥ |
| 問 10 | | ①●③④⑤⑥ |
| 問 11 | | ●②③④ |

24点