2020（令和２）年度

１日［＊］

地理歴史（地理Ａ・Ｂ共通）

注　　意

1．監督者の指示があるまでは、問題を見ないこと。

2．問題は声を出して読まないこと。

3．問題は30ページ、1 、2 、3 、4 の４題から成っている。

4．問題や解答用紙に落丁、乱丁、汚損あるいは印刷不鮮明の箇所などがあれば、手をあげて監督者に申し出ること。内容に関する質問は受けつけない。

5．解答は必ず**鉛筆を使用し、解答用紙に記入すること**。

6．すべての解答は、それぞれの解答欄の記号に**マークすること**。

7．訂正箇所は、消しゴムで**完全に消すこと**。

8．解答に関係のない符号（？✓など）や文字は記入しないこと。

9．解答用紙を**折ったり汚したりしないこと**。

1 次の図１と図２は、平成29年と昭和59年に国土地理院が発行した地形図「京都東北部」の一部を複製したものである。これらの地形図をよく見て、以下の問に答えよ。

図１

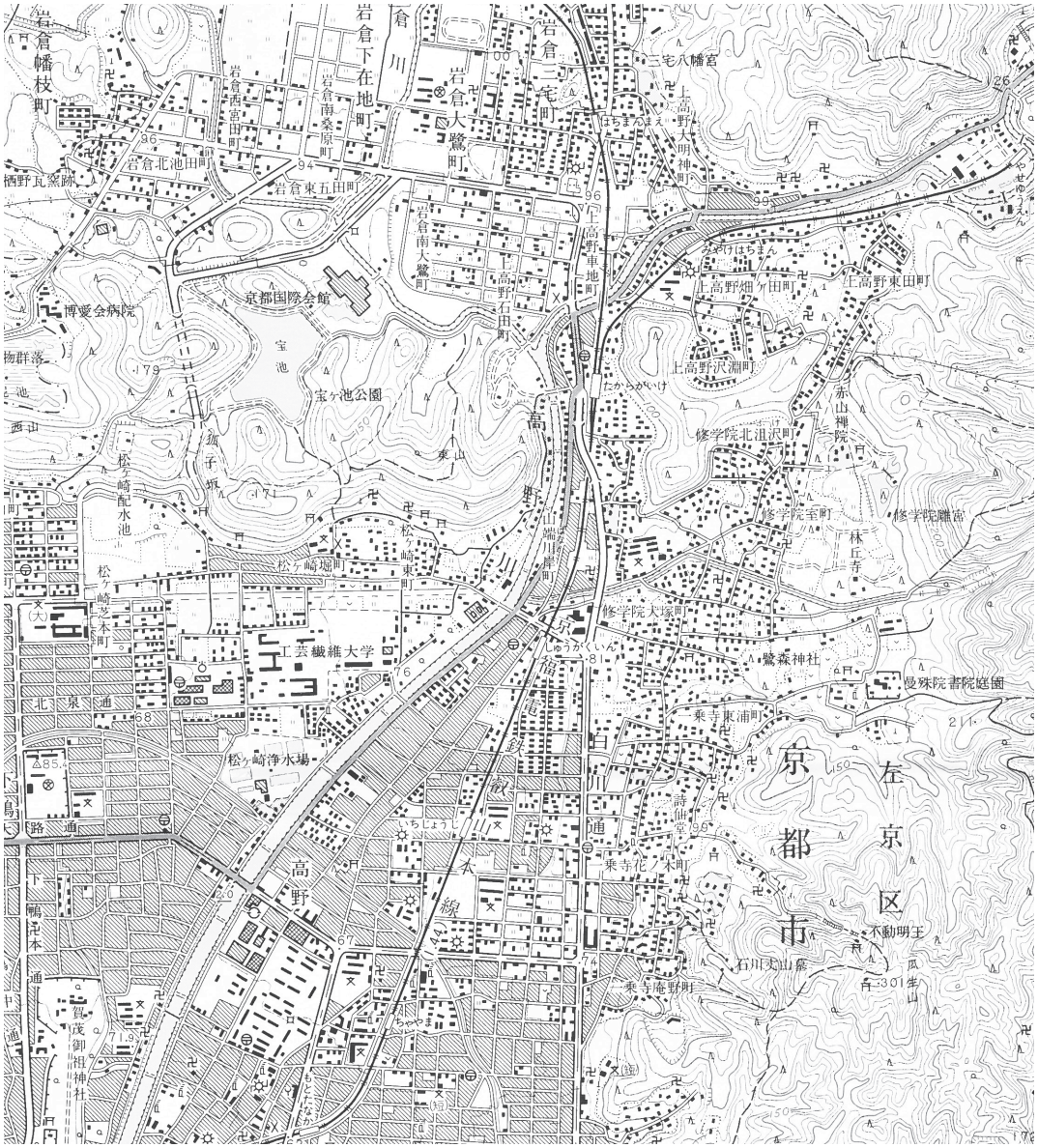

図２

問１　図１中の「宝が池」は、地形図上で約1.2㎢の広さである。「宝が池」の実際の面積に最も近いものを、次の①～④の中から１つ選べ。

①　3000㎡　　②　30000㎡　　③　60000㎡　　④　75000㎡

問２　図１中の「宝が池」についての説明として適切なものを、次の①～④の中から１つ選べ。

①　灌漑用のため池としてつくられた。

②　高野川の氾濫を防止するためにつくられた。

③　高野川の旧流路に形成された。

④　京都国際会館の庭園用につくられた。

問３　図１中の「一乗寺」駅から、東南東にある「瓜生山」の頂上付近の寺院までは地形図上で約６㎝である。「一乗寺」駅の標高を70mとした場合、この２地点間の勾配に最も近いものを、次の①～④の中から１つ選べ。

①　0.08　　②　0.15　　③　0.25　　④　0.33

問４　この地域の変容について、図２と図１を比較してわかることとして**適切でないもの**を、次の①～④の中から１つ選べ。

①　北泉通沿いの区役所は、昭和59年以前からここにあったようだ。

②　岩倉大鷺町にある学校は、高校に加え、小学校もしくは中学校あるいはその両方が設置されたようだ。

③　修学院駅付近から高野川をこえて東西にのびる道路がつくられたようだ。

④　地下鉄が開通して新たに国際会館駅が設置されたようだ。

問５　次の図３中の①～④は、北東、北西、南東、南西のいずれかの上空から図１中の「宝ヶ池」駅の方向を鳥瞰した景観をＣＧで作成したものである。北西から鳥瞰したものを、図３中の①～④の中から１つ選べ。

①



②

③



④



（カシミール３Ｄにより作成）

図３

問６　次の表１中の①～④は、図１中の岩倉北桑原町、修学院、松ヶ崎、山端のいずれかの年齢３区分人口の割合を示したものである（修学院、松ヶ崎、山端はそれぞれ町丁を合算したもの）。岩倉北桑原町に該当するものを、表１中の①～④の中から１つ選べ。

表１

	15歳未満	15歳～64歳	65歳以上
①	15.4	71.7	6.3
②	11.6	58.3	28.2
③	11.3	64.6	20.3
④	9.8	61.3	25.0

年齢不詳があるため合計100％にならない。

（平成27年国勢調査小地域統計による）

問７　図１中のそれぞれの場所付近で起こりうる災害として最も適切なものを、次の①～④の中から１つ選べ。

①　岩倉北桑原町付近では、火砕流による家屋倒壊の恐れがある。

②　山端付近では、内水氾濫による浸水被害の恐れがある。

③　修学院付近では、土石流による家屋被害の恐れがある。

④　松ヶ崎付近では、液状化による家屋被害の恐れがある。

問８　次の図４は、図１中に枠で示した範囲の地形を概観するために標高数値10mごとに等高線を３Ｄで描いたものである。これについて述べた下の文章中の空欄 X ・ Y にあてはまる語句の組み合わせとして適切なものを、あとの①～④の中から１つ選べ。



（カシミール３Ｄにより作成）

図４

図４の東側山地から西に向けていくつかの谷が開け、下流に行くに従って同じ標高の部分が広がっていることが読み取れる。この地形は X であり、一般に下流ほど堆積物の粒径は Y なる。

	①	②	③	④
X	扇状地	扇状地	河岸段丘	河岸段丘
Y	大きく	小さく	大きく	小さく

問９　図１中の東側山麓部を北北東側から南南西に向けて、花折断層とよばれる断層帯が貫いている。この断層は、次の図５中に白線で示した西側の断層帯の一部をなし、琵琶湖側の断層帯との間には比良山地がある。これらの地形に関して、下の⑴・⑵に答えよ。

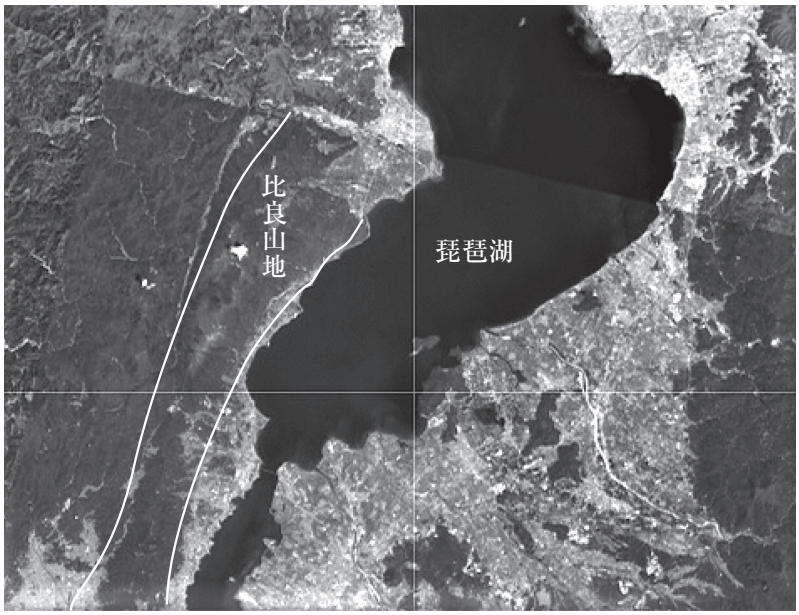

（地理院地図により作成）

図５

⑴　比良山地のような地形の名称として適切なものを、次の①～④の中から１つ選べ。

①　地塁　　②　地溝　　③　傾動地塊　　④　褶曲山地

⑵　琵琶湖はさらに東側の伊吹山地、南側の鈴鹿山脈に囲まれるように位置し、その中に水を湛（たた）えている。琵琶湖と成因が同じ湖沼を、次の①～④の中から１つ選べ。

①　洞爺湖　　②　諏訪湖　　③　霞ヶ浦　　④　芦ノ湖

次のページに進みなさい

2 北アメリカ大陸に関して、以下の問に答えよ。

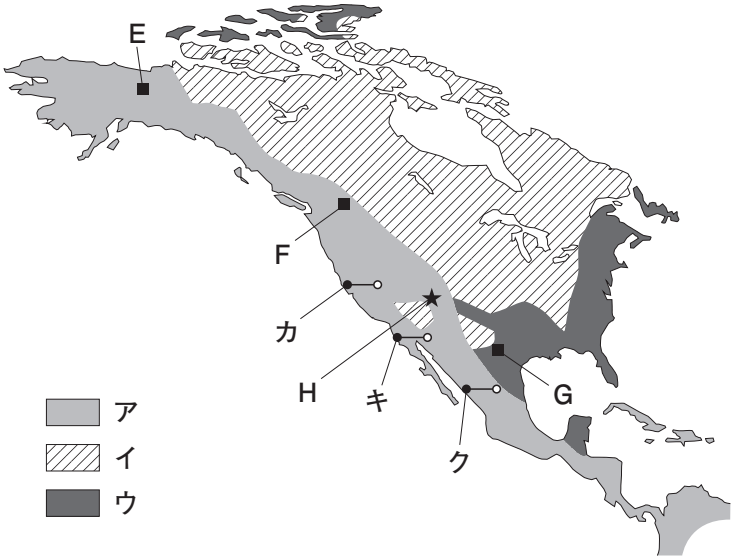

（『Alexander Weltatlas』（2004）ほかによる）

図１

問１　図１中の**ア**～**ウ**は、北アメリカ大陸を成立した地質時代によって３つに区分したものである。**ア**～**ウ**を成立した時代の古い順に並べたものとして適切なものを、次の①～⑥の中から１つ選べ。

① **ア→イ→ウ**　② **ア→ウ→イ**　③ **イ→ア→ウ**

④ **イ→ウ→ア**　⑤ **ウ→ア→イ**　⑥ **ウ→イ→ア**

問２　次の図２中のＡ～Ｃは、図１中の直線**カ**～**ク**の地形断面を示したものである。**カ**～**ク**とＡ～Ｃの組み合わせとして適切なものを、下の①～⑥の中から１つ選べ。ただし、高さは強調して表現してある。

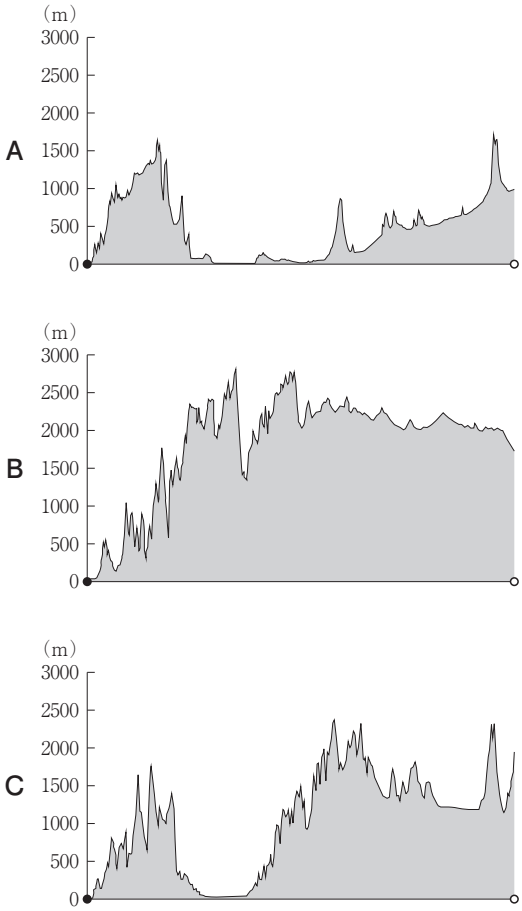

横軸は500kmを示している。

（地理院地図により作成）

図２

	①	②	③	④	⑤	⑥
カ	A	A	B	B	C	C
キ	B	C	A	C	A	B
ク	C	B	C	A	B	A

問３　図１中のＥ～Ｇの地点は、２国間の国境が通過する。それぞれの国境のうち、自然的な障壁を用いているものの組み合わせとして適切なものを、次の①～⑥の中から１つ選べ。

①　Ｅのみ　　②　Ｆのみ　　③　Ｇのみ

④　ＥとＦ　　⑤　ＥとＧ　　⑥　ＦとＧ

問４　次の図３は、図１中のＨ付近で見られる景観である。図３中に見られる地形に関連する説明として**誤っているもの**を、下の①～④の中から１つ選べ。

図３

①　このような地形が見られる平野を構造平野とよぶ。

②　このような形状の地形のうち、テーブル状に広がるものをメサ、塔状のものをビュートとよぶ。

③　原地形は硬層と軟層の互層からなり、最上部は一般に硬層が覆っている。

④　このような地形は、石灰岩を多く含む岩石が溶食されて形成された。

問５　次の図４中の①～④は、五大湖と大西洋を結ぶ内陸水路交通の区間を示したものである。また下の文章は、①～④のいずれかの区間について述べたものである。この区間に該当するものを、図４中の①～④の中から１つ選べ。

図４

この区間の付近にはナイアガラ滝があるなど、高低差が非常に大きくなっている。そこで船舶を通過させるため、多くの閘門を持つ運河が建設された。

問６　図４中の**タ**・**チ**の河口に発達している地形について述べた次の文章中の空欄 J ・ K にあてはまる語句の組み合わせとして適切なものを、下の①～④の中から１つ選べ。

> **タ**の河口は海に向かってラッパ状に広がっており、大きく広がった河口部が J して形成されている。
>
> **チ**の河口には三角州（デルタ）が広がるが、沿岸流や波の侵食力が相対的に K ため、沖合に自然堤防が鳥趾状に伸びることで形成されている。

	①	②	③	④
J	沈　水	沈　水	離　水	離　水
K	大きい	小さい	大きい	小さい

問７　図４中に•で示した都市群をメガロポリスとよぶ。メガロポリスについての説明として適切なものを、次の①～④の中から１つ選べ。

① メガロポリスとは、ある国の中で突出した人口規模の大きい都市とその周辺に位置する、いわゆる住宅衛星都市群の総称。先進国のみに見られる。

② メガロポリスとは、古代ギリシア時代に誕生した都市国家（ポリス）から派生した言葉で、外敵からの攻撃に備えて高い外壁でとり囲まれた城塞都市群をさしている。

③ メガロポリスとは、いくつもの大都市が情報網や交通網で結ばれている都市群である。政治・経済・社会・文化機能の集積が見られ、世界の中枢機能を担っている。

④ メガロポリスとは、グローバル化を促進するために、外国貨物に関税等を付加せずに自由に出入りさせることを認めた港湾を有する都市群である。

問８　図４中のN付近の海域では、大型客船タイタニック号が氷山に衝突して遭難した。氷山がタイタニック号の航路上にあった理由について述べた次の文章中の空欄 P ・ Q にあてはまる語句の組み合わせとして適切なものを、下の①～④の中から１つ選べ。

> アメリカ合衆国東北部からカナダの大西洋岸は、 P 海流が南下する水域にあたり、 Q にはこの海流に乗って氷山が南下する。タイタニック号はこれを警戒して南寄りの航路を取っていたが、衝突することとなった。

	①	②	③	④
P	カナリア	カナリア	ラブラドル	ラブラドル
Q	春から初夏	秋から初冬	春から初夏	秋から初冬

問９　次の表１中の**ナ**～**ヌ**は、サンフランシスコ、メキシコシティ、ワシントンＤ．Ｃ．のいずれかについて、気温の年較差、最多月降水量平年値、最少月降水量平年値を示したものである。都市名と**ナ**～**ヌ**の組み合わせとして適切なものを、下の①～⑥の中から１つ選べ。

表１

	ナ	ニ	ヌ
気温の年較差（℃）	24.3	5.3	8.1
最多月降水量（㎜）	101.2（５月）	276.9（７月）	105.8（２月）
最少月降水量（㎜）	63.8（２月）	5.1（11月）	0.1（７月）

（『理科年表2019』による）

	①	②	③	④	⑤	⑥
サンフランシスコ	ナ	ナ	ニ	ニ	ヌ	ヌ
メキシコシティ	ニ	ヌ	ナ	ヌ	ナ	ニ
ワシントンＤ．Ｃ．	ヌ	ニ	ヌ	ナ	ニ	ナ

問10　北アメリカ大陸に分布する土壌と農業との関連についての説明として**誤っているもの**を、次の①～④の中から１つ選べ。

①　北極海沿岸ではツンドラ土が分布し、農耕はほとんど見られない。

②　五大湖周辺ではポドゾルが分布し、主に酪農が行われている。

③　ミシシッピ川以西のプレーリーでは肥沃な黒土が分布し、穀倉地帯となっている。

④　中米のコスタリカではテラロッサが分布し、コーヒー栽培が行われている。

問11　北アメリカ大陸の沿岸における主なサンゴ礁の分布を示したものとして適切なものを、次の図５中の①～④の中から１つ選べ。

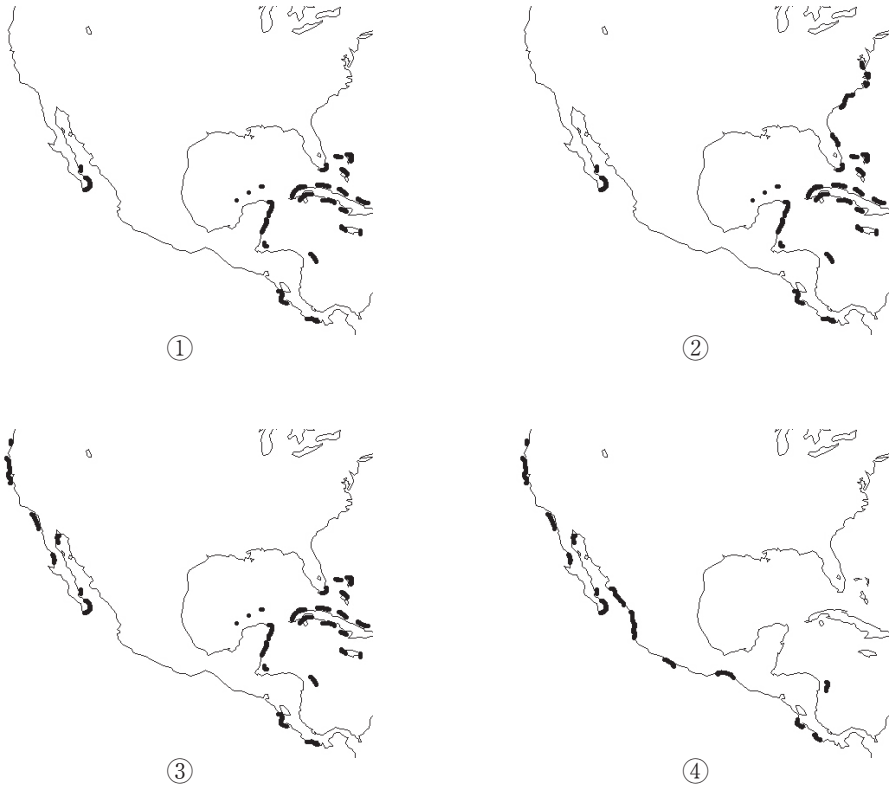

図５

問12　次の表２は、北アメリカ大陸と南アメリカ大陸の気候および高度による分布割合を示したものである。表２中のWとXにあてはまるものの組み合わせとして適切なものを、下の①～④の中から１つ選べ。

表２

	V気候	W気候	200m未満	3000m以上
X大陸	63.4	21.0	38.2	5.0
Y大陸	5.2	13.5	29.9	1.7

単位は％。

（『データブック　オブ・ザ・ワールド2019年版』による）

	①	②	③	④
W	温　帯	温　帯	熱　帯	熱　帯
X	北アメリカ	南アメリカ	北アメリカ	南アメリカ

3 中央アジアと西アジアに関して、以下の問に答えよ。

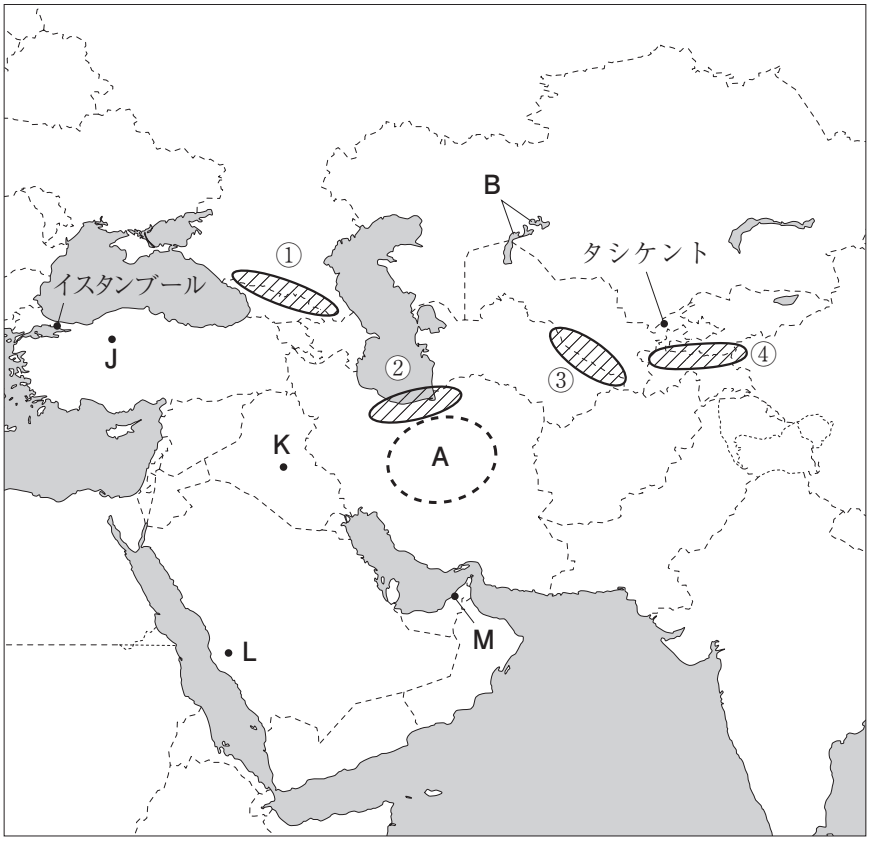

図１

問１　図１中の①～④の中から、標高3000m以上の高山を含む地域として**誤っているもの**を１つ選べ。

問２　次の図２中の**ア**～**ウ**は、図１中に示したイスタンブール、タシケント、およびほぼ同緯度に位置する青森のいずれかの雨温図である。都市名と**ア**～**ウ**の組み合わせとして適切なものを、下の①～⑥の中から１つ選べ。

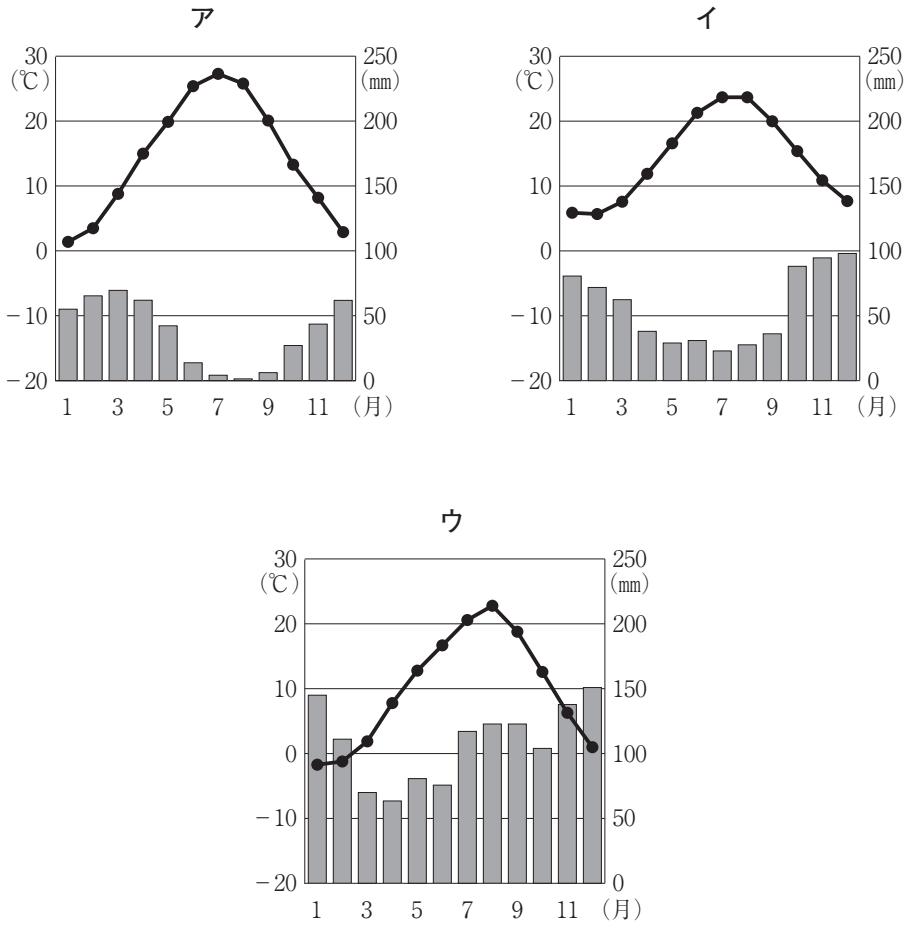

（『理科年表2019』による）

図２

	①	②	③	④	⑤	⑥
イスタンブール	ア	ア	イ	イ	ウ	ウ
タシケント	イ	ウ	ア	ウ	ア	イ
青　森	ウ	イ	ウ	ア	イ	ア

問３　図１中のAの地域では、古くから地下水路を利用した灌漑農業が行われてきた。Aの地域における地下水路の名称と、この付近が原産地とされ古くから栽培されてきた作物の組み合わせとして適切なものを、次の①～④の中から１つ選べ。

	①	②	③	④
地下水路	カナート	カナート	フォガラ	フォガラ
作　物	小　麦	とうもろこし	小　麦	とうもろこし

問４　図１中のBの湖は、かつては世界第４位の面積を誇っていたが、人為的な要因によって湖が縮小し、深刻な環境問題が見られる。これについて述べた次の文章中の下線部①～④の中から、**誤っているもの**を１つ選べ。

Bの湖は①アラル海とよばれる。ソ連時代に行われた「自然改造計画」の一つとして、②この湖から流出するアムダリア川流域で、③綿花の増産のために過剰な取水を行って大規模な灌漑を進めたことで湖が急速に縮小した。漁業は壊滅し、④塩害による住民の健康被害も見られる。

問５　次の①～④は、図１中のJ～Mのいずれかの都市について説明したものである。Kに該当するものを、次の①～④の中から１つ選べ。

①　西アジアの経済成長を象徴する都市であり、世界一の高さの超高層ビルも建設された。国際的なハブ空港やリゾート地も有している。

②　20世紀に入ってから革命のさなかにこの都市に首都が定められ、それ以降急速に発展した。人口規模は国内で第２位である。

③　イスラーム（イスラム教）最大の聖地があり、多くの信者が礼拝に訪れる。非ムスリム（イスラム教徒）は立ち入りを禁じられている。

④　外来河川沿いに位置し、古くから発達した都市である。また、イスラーム世界における学問や商業の中心地の一つとして栄えてきた。

問６　アラビア半島に見られる人間生活について述べた次のａ・ｂの文の正誤の組み合わせとして適切なものを、下の①～④の中から１つ選べ。

ａ　伝統的に、豚・ヤギ・ラクダなどの遊牧が広く行われている。

ｂ　オアシスには集落が見られ、その家屋は風通しを良くするように窓を大きくつくっているものが多い。

①　ａ・ｂとも正しい　　②　ａのみ正しい

③　ｂのみ正しい　　④　ａ・ｂとも誤り

問７　次の表１は、イラク、イラン、サウジアラビア、トルコのいずれかについてまとめたものである。イラクに該当するものを、表１中の①～④の中から１つ選べ。

表１

	人　口（万人）	１人当たり国民総所得（ドル）	イスラームの主な宗派	アラブ連盟への加盟状況
①	8,201	5,470	シーア派86％	非加盟
②	8,192	11,230	スンナ派83％	非加盟
③	3,934	5,420	シーア派62％、スンナ派34％	加　盟
④	3,355	21,720	スンナ派84％	加　盟

統計年次は、人口が2018年、１人当たり国民総所得が2016年、主な宗派が2000年または2005年。

（『データブック　オブ・ザ・ワールド2019年版』による）

問８　次の**カ**～**ク**の文は、西アジアで発生した紛争について説明したものである。**カ**～**ク**を時代の古い順に並べたものとして適切なものを、下の①～⑥の中から１つ選べ。

カ　アメリカ合衆国で同時多発テロ事件が発生した後、アメリカ合衆国は、イスラーム過激派組織の拠点があるとされたアフガニスタンに侵攻した。

キ　イラクによるクウェート侵攻は、アメリカ合衆国を中心とする多国籍軍との湾岸戦争に発展し、最終的にイラク軍は撤退した。

ク　アラブ諸国がパレスチナの領土奪回をめざしてイスラエルを攻撃したことで発生した第４次中東戦争は、原油価格の高騰を招いた。

① **カ→キ→ク**　② **カ→ク→キ**　③ **キ→カ→ク**
④ **キ→ク→カ**　⑤ **ク→カ→キ**　⑥ **ク→キ→カ**

問９　次の表２は、主な原油輸入国について原油輸入先を示したものであり、表２中の**P**～**R**は、アメリカ合衆国、中国、日本のいずれかである。国名と**P**～**R**の組み合わせとして適切なものを、下の①～⑥の中から１つ選べ。

表２

	P	Q	R
アラブ首長国連邦	117	3,770	1,016
イラク	3,549	270	3,682
イラン	—	871	3,115
サウジアラビア	5,572	6,343	5,218

単位は万ｔ。統計年次は2017年。
（『データブック　オブ・ザ・ワールド2019年版』による）

	①	②	③	④	⑤	⑥
アメリカ合衆国	P	P	Q	Q	R	R
中　国	Q	R	P	R	P	Q
日　本	R	Q	R	P	Q	P

問10　次の表３中の①～④は、アラブ首長国連邦、シンガポール、スイス、南アフリカ共和国のいずれかにおける65歳以上人口割合と国際移住者率*を示したものである。アラブ首長国連邦に該当するものを、表３中の①～④の中から１つ選べ。

*全人口に対する外国生まれの人口または外国人人口の割合。

表３

	65歳以上人口割合（％）	国際移住者率（％）
①	18.1	29.6
②	13.0	46.0
③	5.3	7.1
④	0.8	88.4

統計年次は、いずれも2017年。

（『世界国勢図会2019／20年版』による）

問11　次ページの**サ**～**ス**の文は、次の図３中の**X**～**Z**のいずれかの国の首都について説明したものである。**X**～**Z**と**サ**～**ス**の組み合わせとして適切なものを、あとの①～⑥の中から１つ選べ。

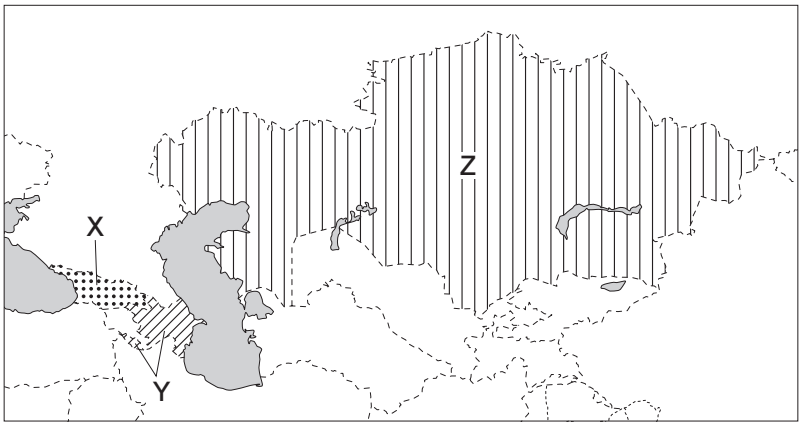

図３

サ　帝政ロシア時代から油田を背景に発展し、ソ連からの独立後はオイルマネーで潤った。城壁に囲まれた旧市街は世界文化遺産となっている。

シ　古い時代に建てられたキリスト教会が点在する。都市のシンボルとなっている丘に立つ女性の像は、左手にワインの杯を持つ。

ス　ソ連から独立した後の1997年に首都が移され、近代的な都市が建設された。都市計画は日本人建築家が担当した。

	①	②	③	④	⑤	⑥
X	**サ**	**サ**	**シ**	**シ**	**ス**	**ス**
Y	**シ**	**ス**	**サ**	**ス**	**サ**	**シ**
Z	**ス**	**シ**	**ス**	**サ**	**シ**	**サ**

問12　次の図４は、図３中のＺが世界第１位の産出量を誇る鉱産資源について、産出量上位５か国を示したものである。この資源に該当するものを、下の①～④の中から１つ選べ。

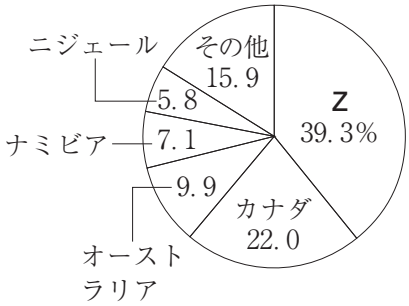

含有量。統計年次は2017年。
（『データブック　オブ・ザ・ワールド2019年版』による）

図４

①　ウラン鉱　　②　ダイヤモンド

③　プラチナ（白金）　　④　ニッケル鉱

4 日本と世界の第１次産業に関して、以下の問に答えよ。

問１　次の図１は、地域別の農業産出額の割合を示したものであり、図１中のA～Cは、北海道、北陸、四国のいずれかである。地方名とA～Cの組み合わせとして適切なものを、下の①～⑥の中から１つ選べ。

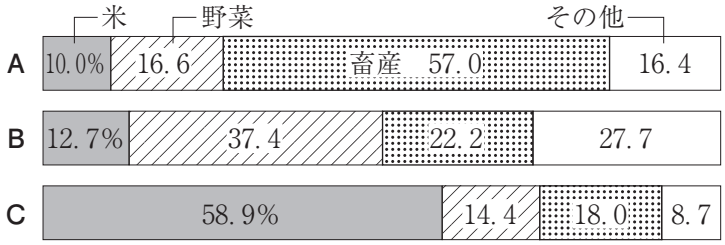

統計年次は2017年。

（『日本国勢図会2019／20年版』による）

図１

	①	②	③	④	⑤	⑥
北海道	A	A	B	B	C	C
北　陸	B	C	A	C	A	B
四　国	C	B	C	A	B	A

問２　日本国内の農業生産に関して、地域ごとの特色ある農業についての説明として**誤っているもの**を、次の①～④の中から１つ選べ。

①　沖縄県の沖縄島では、温暖な気候を生かして菊の電照栽培を行い、本州が寒冷な時期に出荷している。

②　鹿児島県の大隅半島では、灌漑施設の整備によって大規模な稲作地帯となっている。

③　長野県の八ヶ岳山麓では、夏でも冷涼な気候を生かしてレタスの抑制栽培が行われている。

④　栃木県の那須高原では、人口の多い首都圏に近いことから鮮度の高い生乳を生産・出荷している。

問３　次の図２中の**ア**～**エ**は、水産物の水揚量が全国の上位にある漁港を示している。また、次ページの表１は、**ア**～**エ**のいずれかについて、総水揚量と水揚上位品目を示している。**エ**に該当するものを、表１中の①～④の中から１つ選べ。

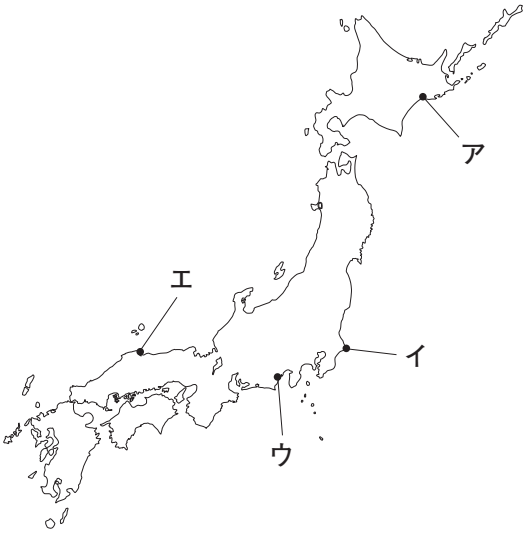

図２

表１

	総水揚量（ｔ）	水揚上位品目
①	280,790	さば類、まいわし、さんま、まあじ、ぶり類
②	218,023	かたくちいわし、まいわし、すけとうだら（生）、さば類、たら（生）
③	149,383	かつお（冷）、きはだ（冷）、さば類、その他のまぐろ類（冷）、びんなが（冷）
④	118,319	まいわし、さば類、まあじ、ぶり類、べにずわいがに

（生）は生鮮品。（冷）は冷凍品。統計年次は2017年。

（水産庁「産地水産物流通調査」による）

問４　日本の林業についての説明として**誤っているもの**を、次の①～④の中から１つ選べ。

①　里山には入会地とよばれる集落の共有地があり、落ち葉や薪炭材などの共同利用が行われていた。

②　第二次世界大戦中には、燃料材として多くの森林資源が伐採されたが、戦後の植林により森林面積は回復している。

③　バブル経済期の建築需要の増大により、マレーシアやフィリピンから用材を大量に輸入するようになった。

④　近年では、中国のほか新興国での木材需要の高まりなどもあり、日本の木材輸出は増加している。

問５　貿易自由化の進展は、日本の第１次産業に大きな影響を与える。次の**カ**～**ク**の出来事を時代の古い順に並べたものとして適切なものを、下の①～⑥の中から１つ選べ。

カ　ミニマムアクセス米の輸入を開始した。
キ　しいたけなど３品目についてセーフガードを発動した。
ク　オレンジ・牛肉の輸入自由化が実施された。

①　**カ→キ→ク**　　②　**カ→ク→キ**　　③　**キ→カ→ク**
④　**キ→ク→カ**　　⑤　**ク→カ→キ**　　⑥　**ク→キ→カ**

問６　世界の主な農業区分に関して、分布地域や生産の特徴についての説明として**誤っているもの**を、次の①～④の中から１つ選べ。

①　集約的稲作農業はモンスーンアジアに集中しており、労働生産性と比べて土地生産性が高い傾向がある。
②　オアシス農業は外来河川や湧水などを利用して行われ、なつめやしや綿花、ぶどうなどが栽培される。
③　遊牧は自然環境の厳しい地域で行われることが多く、オーストラリアでは内陸の乾燥地で顕著に見られる。
④　混合農業は中部ヨーロッパで広く見られ、穀物や飼料作物の栽培と家畜の飼育が組み合わされている。

問７　次の表２は、主な農産物の生産上位４か国と生産量を示したものであり、表２中の**サ**・**シ**は大豆・とうもろこしのいずれか、**J**・**K**は中国・ブラジルのいずれかである。**サ**と**K**に該当するものの組み合わせとして適切なものを、下の①～④の中から１つ選べ。

表２

小　麦	
J	134
インド	99
ロシア	86
アメリカ合衆国	47

サ	
アメリカ合衆国	120
K	115
アルゼンチン	55
J	13

シ	
アメリカ合衆国	371
J	259
K	98
アルゼンチン	49

単位は百万ｔ。統計年次は2017年。

（『世界国勢図会2019／20年版』による）

	①	②	③	④
サ	大　豆	大　豆	とうもろこし	とうもろこし
K	中　国	ブラジル	中　国	ブラジル

問８　農業地域によっては、他の地域から移入した労働力によって生産が支えられていることがある。次の文は、ある国におけるプランテーション農業とその労働力について述べたものである。この国に該当するものを、下の①～④の中から１つ選べ。

> この国では、イギリスの植民地であった時代に天然ゴムのプランテーションが開かれ、その労働力として多くのタミル人が移入した。

①　マレーシア　　②　インドネシア

③　マダガスカル　　④　南アフリカ共和国

問９　農業経営に関して、規模の拡大や形態の変化について述べた次の文章中の空欄 P ・ Q にあてはまる語句の組み合わせとして適切なものを、あとの①～⑥の中から１つ選べ。

> 先進国では、農業経営の効率化や高収益化をめざし、大規模化が進む傾向にある。日本では、 P といった動きが見られる。一方、ＥＵでは農業政策の転換により Q が行われている。

タ　農業生産への企業参入や農家の法人化

チ　公的機関による農地の買い上げと主業農家への配分

ツ　環境保全などを重視した直接所得保障

	①	②	③	④	⑤	⑥
P	タ	タ	チ	チ	ツ	ツ
Q	チ	ツ	タ	ツ	タ	チ

問10　次の表３は、イタリア、オランダ、スウェーデン、ドイツのいずれかの食料自給率を示したものである。ドイツに該当するものを、表３中の①～④の中から１つ選べ。

表３

	穀　類	イモ類	野菜類	果実類	肉　類	牛乳・乳製品
①	113	117	40	25	114	123
②	69	45	141	106	79	68
③	110	75	38	4	63	87
④	16	221	284	22	176	224

統計年次は2013年。

（『データブック　オブ・ザ・ワールド2019年版』による）

地理歴史（地理）解答用紙　　1日［＊］

1

問	1	①②③●
問	2	●②③④
問	3	①●③④
問	4	●②③④
問	5	①②●④
問	6	●②③④
問	7	①②●④
問	8	①●③④
問9	（1）	●②③④
	（2）	①●③④

22点

2

問	1	①②③●⑤⑥
問	2	①②③④●⑥
問	3	①②●④⑤⑥
問	4	①②③●
問	5	①②●④
問	6	①●③④
問	7	①②●④
問	8	①②●④
問	9	①②③④⑤●
問	10	①②③●
問	11	●②③④
問	12	①●③④

26点

3

問	1	①②●④
問	2	①②●④⑤⑥
問	3	●②③④
問	4	①●③④
問	5	①②③●
問	6	①②③●
問	7	①②●④
問	8	①②③④⑤●
問	9	①●③④⑤⑥
問	10	①②③●
問	11	①②●④⑤⑥
問	12	●②③④

28点

4

問	1	①●③④⑤⑥
問	2	①●③④
問	3	①②③●
問	4	①②●④
問	5	①②③④●⑥
問	6	①②●④
問	7	①●③④
問	8	●②③④
問	9	①●③④⑤⑥
問	10	●②③④

24点